氏名＿＿＿＿＿＿＿＿　　＿＿＿月＿＿＿日

ホットケーキを作ろう

材料（一人分）

小麦粉	100g
さとう	30g
バター	10g
牛　乳	100mℓ

友だちに、ホットケーキを作ります。
友だちは全員で１０名です。それぞれの材料の量を計算しましょう。

小麦粉	g＝
さとう	
バター	
牛　乳	mℓ＝

重さの単位

月　　日

名前

1　重いほうに○をつけましょう。

(1)　(　)　(　)

(2)　(　)　(　)

(3)　(　)　(　)

2　１円玉１個の重さは１gです。　それぞれの重さは何gでしょう。

＝ 1g

なぞりましょう

(1)　１円玉が２４こ　＿＿＿＿＿＿ g

(2)　１円玉が１００こ　＿＿＿＿＿＿ g

3　重さをはかる，はかりについてしらべましょう。



(1)　このはかりでは，何gまではかれるでしょうか。

＿＿＿＿＿＿ g

(2)　いちばん小さいめもりは、何gを表しているでしょうか。

＿＿＿＿＿＿ g

(3)　ふでばこの重さをはかったら３６０gありました。
上のはかりに，重さを↑でかきましょう。

重さの単位

月　　日

名前

1 はかりのさしている重さは，いくらでしょう。

(1)

(　　g)

(2)

(　　g)

(3)

(　　g)

2 次の重さを，↑ではかりに書きましょう。

(1) 450 g

(2) 920 g

(3) 610 g

3 □の中にあてはまる数を書きましょう。

(1) 1 kg ＝ □ g

(2) 0.1 kg ＝ □ g

(3) 1000 g ＝ □ kg

(4) 1250 g ＝ □ kg

(5) 500 g ＝ □ kg

(6) 0.54 kg ＝ □ g

重さの単位

月　　日

名前

1 下の図をみて答えましょう。

(1)

イのおもりは，100ｇです。アのおもりは同じ大きさで，１つ分は何ｇでしょう。

ア，イの重さは，同じです。

＿＿＿＿＿＿ｇ

(2)

アのおもりは，60ｇです。１円玉は何こ目でおくと，図のようになるでしょう。

の重さはいくらだったかな？

＿＿＿＿＿＿こ目

2 重さをはかる，はかりについてしらべましょう。



(1)　このはかりでは，何ｇまではかれるでしょう。

＿＿＿＿＿＿ｇ

(2)　いちばん小さいめもりは，何ｇを表しているでしょう。

＿＿＿＿＿＿ｇ

(3)　本の重さをはかったら１２４０ｇありました。
上のはかりに，重さを↑で書きましょう。

重さの単位

月　　日

名前

1　はかりのさしている重さは，何g でしょう。

（1）

（　　）

（2）

（　　）

（3）

（　　）

2　次の重さを，↑ではかりに書きましょう。

（1）　８８０ g

（2）　１５２０ g



（3）　1kg １４０g

3　重さ５００g のはこに，お米９００g 入れました。

（1）　重さは合わせて，何g になるでしょう。

式　　g ＋　　g ＝　　g

（2）　これは，何kg何g といえるでしょうか。

＿＿＿＿＿＿＿＿

重さの単位

月　　日

名前

1　二つのはかりを合わせると，いくつになるでしょう。

(1)

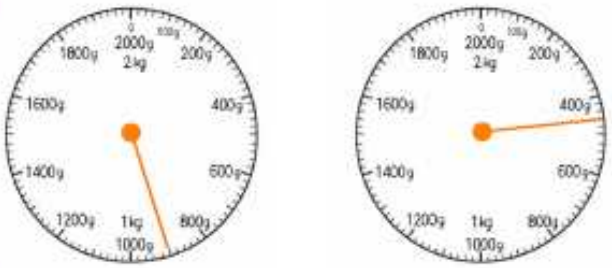

g

kg　　g

(2)

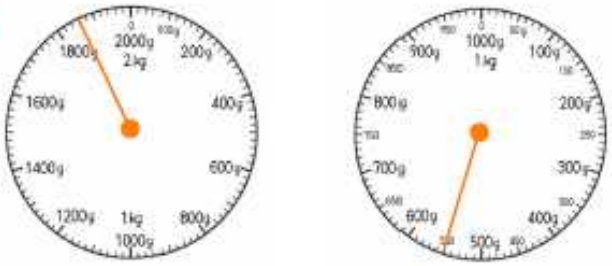

g

kg　　g

2　次の問題に答えましょう。

(1)　重さ１kg のランドセルに，本やノートを入れてはかったら，合わせて，２８００g ありました。
ランドセルに入れたものの重さは，何g あるでしょう。

①　　g

(2)　重さ５００g のはこに，みかんを３kg 入れました。
合わせた重さは何kg でしょうか。

②　　kg

(3)　①と②の重さを，下の数直線に↓で書きましょう。



氏名＿＿＿＿＿＿＿＿＿＿＿＿

ホットケーキを作ろう

材料（一人分）

小麦粉	100g
さとう	30g
バター	10g
牛　乳	100mℓ

友だちに、ホットケーキを作ります。
友だちは全員で１０名です。それぞれの材料の量を計算しましょう。

		どうぐ
小麦粉	g＝	
さとう		
バター		
牛　乳	mℓ＝	

それぞれの量を量るのに必要な道具はどれでしょう。

１計量スプーン　２　計量カップ　３　はかり　４　上皿はかり　５　ボウル　６　じょうぎ